3級 指の位置と四捨五入 ～除算～

1 2,091.3 ÷ 862 =

この定位点を一の位とする

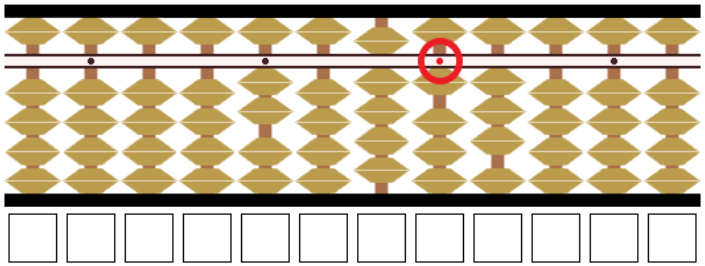

(1) 指を置く場所の□を塗りつぶしなさい。

(2) 正しい答えはどれですか？そろばんで計算をして答えなさい。

（小数第３位未満四捨五入）

① 2.426　　③ 0.243

② 24.261　　④ 2.427

答え

2 0.0137 ÷ 0.46 =

この定位点を一の位とする

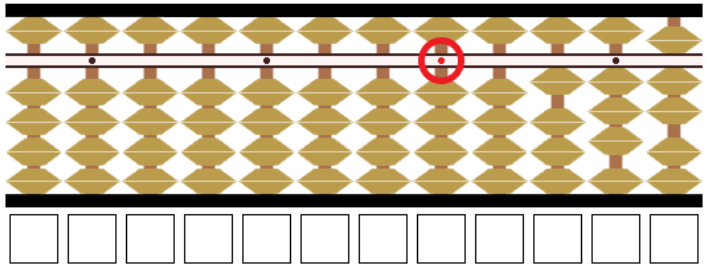

(1) 指を置く場所の□を塗りつぶしなさい。

(2) 正しい答えはどれですか？そろばんで計算をして答えなさい。

（小数第３位未満四捨五入）

① 2.01　　③ 0.03

② 0.298　　④ 2.978

答え

3 943 ÷ 0.062 =

この定位点を一の位とする

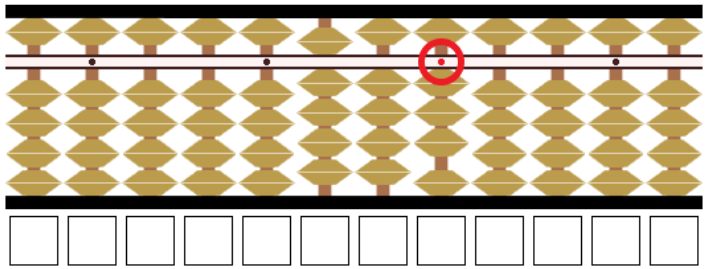

(1) 指を置く場所の□を塗りつぶしなさい。

(2) 正しい答えはどれですか？そろばんで計算をして答えなさい。

（整数位未満四捨五入）

① 152,097　　③ 1,521

② 15,210　　④ 15,181

答え

4 4,754 ÷ 59.1 =

この定位点を一の位とする

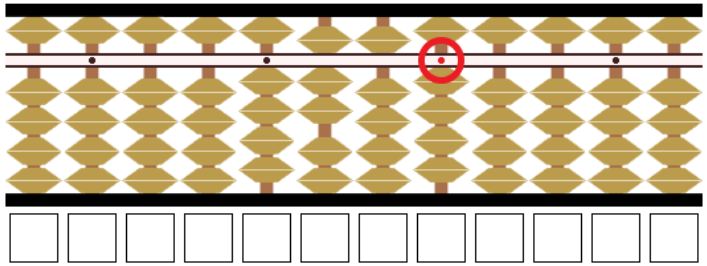

(1) 指を置く場所の□を塗りつぶしなさい。

(2) 正しい答えはどれですか？そろばんで計算をして答えなさい。

（整数位未満四捨五入）

① 80.447　　③ 8.044

② 8　　④ 80

答え

山手ジュニア 山手そろばん教室